برابر گروہ

مشق

بڑے گروہ، وہی تصور۔

نام: _____ تاریخ: _____

سوچیں: ایک ہی عدد کو بار بار جمع کرنا، اس عدد کو اس کی تکرار کی تعداد سے ضرب دینے کے برابر ہے۔

1. برابر گروہوں کو گنیں۔ اسے جمع کی صورت میں اور ضرب کی صورت میں لکھیں۔

1) مجموعی طور پر کتنی کتابیں ہیں؟

____ گروہ ہیں۔ ہر گروہ میں ____ ہیں۔

____ = ____ × ____ یا ____ = ... + ____ + ____

2) مجموعی طور پر کتنے بٹن ہیں؟

____ گروہ ہیں۔ ہر گروہ میں ____ ہیں۔

____ = ____ × ____ یا ____ = ... + ____ + ____

3) مجموعی طور پر کتنی کاریں ہیں؟

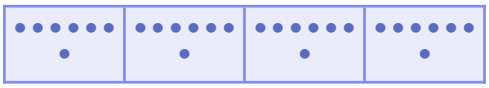

____ گروہ ہیں۔ ہر گروہ میں ____ ہیں۔

____ = ____ × ____ یا ____ = ... + ____ + ____

4) مجموعی طور پر کتنے بلاکس؟

____ گروہ ہیں۔ ہر گروہ میں ____ ہیں۔

____ = ____ × ____ یا ____ = ... + ____ + ____

5) مجموعی طور پر کتنے سیب؟

____ گروہ ہیں۔ ہر گروہ میں ____ ہیں۔

____ = ____ × ____ یا ____ = ... + ____ + ____

6) مجموعی طور پر کتنے انگور ہیں؟

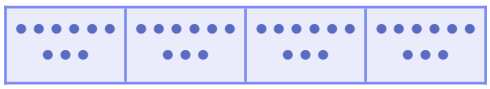

____ گروہ ہیں۔ ہر گروہ میں ____ ہیں۔

____ = ____ × ____ یا ____ = ... + ____ + ____

7) مجموعی طور پر کتنے بلاکس؟

____ گروہ ہیں۔ ہر گروہ میں ____ ہیں۔

____ = ____ × ____ یا ____ = ... + ____ + ____

8) مجموعی طور پر کتنے پہیے ہیں؟

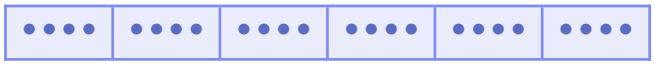

____ گروہ ہیں۔ ہر گروہ میں ____ ہیں۔

____ = ____ × ____ یا ____ = ... + ____ + ____